https://www.tawjihnet.net
التحميل : موقع توجيه نت

وزارة التربية الوطنية و التكوين المهني
الأكاديمية الجهوية للتربية و التكوين
لجهة بني ملال - خنيفرة

خاص بكتابة الامتحان
450729

دورة :
المستوى : الشعبة : المسلك :
مادة :
الملاحظات المفسرة للنقطة النهائية

النقطة النهائية على 20
20/20
إسم المصحح
توقيع المصحح

و منه :

$$\left(\frac{T}{2\pi}\right)^2 = LC$$

$$\Rightarrow L = \left(\frac{T}{2\pi}\right)^2 \times \frac{1}{C}$$

من خلال المنحنى (ا) لدينا : $T = 6\,ms$

إذن :

$$L = \left(\frac{6\times10^{-3}}{2\pi}\right)^2 \times \frac{1}{10^{-5}}$$

$$= 0,0911\,H$$

إذن $L \approx 0,1\,H$

0,25

ـ حساب ΔE_p بين $t_1 = 0\,ms$ و $t_2 = 18\,ms$ لدينا :

$$\Delta E_p = E_{p_2} - E_{p_1}$$

ولدينا :

$$E_p = E_e + E_m = \frac{1}{2C} q^2 + \frac{1}{2} L i^2$$

إذن

$$E_p = \frac{1}{2C} q^2 + \frac{1}{2} L i^2$$

عند اللحظة $t = 0\,ms$ لدينا q تأخذ قيمة قصوى $q_{max_1} = 120\,\mu C$

إذن $i = 0\,A$ في هذه اللحظة و بالتالي فإن :

$$E_{p_1} = E_{c\,max_1} = \frac{1}{2C} q_{max_1}^2$$

$$= \frac{1}{2} \times \frac{(120\times10^{-6})^2}{10^{-5}}$$

إذن $E_{p_1} = 7,2\times10^{-4}\,J$

عند اللحظة $t = 18\,ms$ لدينا q تأخذ قيمة قصوى $q_{max_2} = 40\,\mu C$

إذن $i = 0\,A$ عند هذه اللحظة و بالتالي فإن :

$$E_{p_2} = E_{c\,max_2} = \frac{1}{2C}(q_{max_2})^2 = \frac{1}{2} \times \frac{(40\times10^{-6})^2}{10^{-5}}$$

إذن $E_{p_2} = 8\times10^{-5}\,J$

التمرين الثالث :

1 ـ دراسة ثنائي القطب RC :

1.1 حسب قانون إضافية التوترات لدينا :

$$U_C + U_R + U_r = E$$

ولدينا حسب قانون أوم $U_R = Ri$ و $U_r = ri$

و كذلك : $i = C\frac{dU_C}{dt}$

إذن :

$$U_C + ri + Ri = E$$

$$\Rightarrow U_C + rC\frac{dU_C}{dt} + RC\frac{dU_C}{dt} = E$$

$$\Rightarrow U_C + (r+R)C\frac{dU_C}{dt} = E$$

0,25

1.2 نتحقق حل المعادلة التفاضلية فنجد :

$$A(1 - e^{-t/\tau}) + (r+R)C\frac{d(A(1-e^{-t/\tau}))}{dt} = E$$

$$\Rightarrow A - Ae^{-t/\tau} + \frac{A(r+R)C}{\tau}e^{-t/\tau} = E$$

$$\left(\frac{d(A - Ae^{-t/\tau})}{dt} = -\frac{A}{\tau}e^{-t/\tau}\right)$$

$$\Rightarrow Ae^{-t/\tau}\left(\frac{C(r+R)}{\tau} - 1\right) + A - E = 0$$

لكي تكون هذه المعادلة صحيحة يجب أن يكون لدينا :

$$A - E = 0 \quad \text{و} \quad \frac{(r+R)C}{\tau} - 1 = 0$$

إذن :

$$A = E \quad \text{و} \quad \frac{(r+R)C}{\tau} = 1$$

إذن

$$A = E \quad \text{و} \quad \tau = (r+R)\times C$$

0,5

يمنع على المترشح أن يمضي ورقته, أو يجعل أية علامة تبين مصدر الورقة
www.tawjihnet.net

https://www.tawjihnet.net التحميل من موقع توجيه نت

Ministère de l'Education Nationale et de la Formation Professionnelle
Académie Régionale d'Education et de Formation
Région benimellal - khénifra

EXAMEN DU BACCALAURÉAT

SESSION DE :

Niveau : Série : Filière :

COMPOSITION DE :

Note définitive sur 20

Nom du correcteur

Signature du correcteur

Appréciations expliquant la note chiffrée

Réservé au Secrétariat

إذن : $\frac{E}{R+r}$

$\Rightarrow R+r = \frac{E}{I_0}$

$\Rightarrow R = \frac{E}{I_0} - r$

$= \frac{12}{0,80} - 20 = 40\ \Omega$

$R = 40\ \Omega$ ومنه :

3 ـ 1 ـ 4 ـ بيانيا نجد $\tau = 0,6\ ms$ مع اقتراب الأفقي $u_c = E$ حيث أفصول نقطة تقاطع المماس عند اللحظة $t=0$

إذن $\tau = 0,6 \times 10^{-3}\ s$

3 ـ 1 ـ 4 ـ 3 ـ من خلال نتيجة سؤال (2 ـ 1) لدينا :

$\tau = (R+r) \times C$

$\Rightarrow C = \frac{\tau}{R+r} = \frac{0,6 \times 10^{-3}}{20+40} = 10^{-5}\ F$

إذن $C = 10\ \mu F$

2 ـ دراسة تذبذبات الدارة بدون مقاومة :

2 ـ 1 ـ من خلال منحنى الشكل (3) فإن الوسع يتناقص مع مرور الزمن إذن النظام المتذبذب الذي يمثله هو : نظام شبه دوري

2 ـ 2 ـ باعتبار أن شبه الدور يساوي الدور الخاص فإن :

$T = T_0 = 2\pi\sqrt{LC}$

إذن $T = 2\pi\sqrt{LC}$

$\Rightarrow \frac{T}{2\pi} = \sqrt{LC}$

3 ـ 1 ـ لدينا : (1) $i(t) = I_0 e^{-t/\tau}$

ونعلم أن : $i(t) = C\frac{d(u_c(t))}{dt}$

إذن $i(t) = C\frac{d(E(1-e^{-\frac{t}{\tau}}))}{dt}$

وبالتالي (2) $i(t) = C \times \frac{E}{(r+R)C} e^{-t/\tau}$

من خلال العلاقتين (1) و (2) نجد : $I_0 e^{-t/\tau} = \frac{E}{(r+R)C} e^{-t/\tau}$

$\Rightarrow I_0 = \frac{E}{(R+r)C}$

إذن $I_0 = \frac{E}{R+r}$

4 ـ 1 ـ 4 ـ نعلم أن :

إذن عند اللحظة $t=0$:

$I_0 = C\frac{du_c}{dt}\Big|_{t=0}$

لدينا $I_0 = \frac{E}{R+r}$

من خلال المنحنى نجد أن $E = 12\ V$

N.B. : Il est interdit aux candidats de signer la présente feuille ou d'y mettre un signe quelconque pouvant indiquer sa provenance.

www.tawjihnet.net

https://www.tawjihnet.net
التحميل : موقع توجيه نت

وزارة التربية الوطنية و التكوين المهني
الأكاديمية الجهوية للتربية و التكوين
لجهة بني ملال – خنيفرة

خاص بكتابة الامتحان

دورة :

المستوى : الشعبة : المسلك :

مادة :

الملاحظات المفسرة للنقطة النهائية

النقطة النهائية على 20

إسم المصحح

توقيع المصحح

التمرين الرابع :
الجزء الثاني :
1- نعلم أن :

$E_m = E_{pp} + E_c$

ولدينا :

$E_c = \frac{1}{2} J_\Delta \dot{\theta}^2$

و

$E_{pp} = \pm mgz + cte$

$= mgz + cte$

عند موضع التوازن لدينا : $z = 0$ و $E_{pp} = 0$

إذن :

$mg \times 0 + cte = 0$

$\Rightarrow cte = 0$

وبالتالي :

$E_{pp} = mgz$

إذن :

$E_m = mgz + \frac{1}{2} J_\Delta \dot{\theta}^2$

لنحدد z :

لدينا :

$z = L - d$

ولدينا :

$\cos\theta = \frac{d}{L}$

$\Rightarrow d = L \times \cos\theta$

إذن :

$z = L - L\cos\theta$

$= L(1 - \cos\theta)$

في حالة التذبذبات الصغيرة لدينا : $\cos\theta = 1 - \frac{\theta^2}{2}$

إذن :

$z = L\left(1 - 1 + \frac{\theta^2}{2}\right) = \frac{L}{2}\theta^2$

ومنه :

$E_{pp} = \frac{1}{2} mgL\theta^2$ (Q7.5)

وبالتالي :

$E_m = \frac{1}{2} mgL\theta^2 + \frac{1}{2} J_\Delta \dot{\theta}^2$

لأن : $J_\Delta = mL^2$ إذن :

$E_m = \frac{1}{2} mgL\theta^2 + \frac{1}{2} mL^2\dot{\theta}^2$

التمرين الثالث :

3-2- لدينا :

$\Delta E = E_{T_2} - E_{T_1}$

$= 8 \times 10^{-6} - 7,2 \times 10^{-4}$

$= -6,4 \times 10^{-4} J < 0$

إذن : $\Delta E = -6,4 \times 10^{-4} J$ (0,5)

تفسير : يفسر ضياع الطاقة في الدارة بسبب وجود المقاومة r لأن شعيعة أثناء تبادل الطاقة بين المكثف و الوشيعة يلزم جزء من الطاقة بمفعول الجول (المقاومة).

4-2-

4-2-1- حسب قانون إضافية التوترات لدينا :

$u_C + u_L = u_G$ $\quad (u_L = L\frac{di}{dt} + ri \; ; \; q = Cu_C)$

$\Rightarrow \frac{q}{C} + L\frac{di}{dt} + ri = Ki$

نعلم أن $i = \frac{dq}{dt}$ وبالتالي نجد :

$\frac{q}{C} + L\frac{d^2q}{dt^2} + r\frac{dq}{dt} - K\frac{dq}{dt} = 0$

$\Rightarrow q + LC\frac{d^2q}{dt^2} + \frac{dq}{dt}(r - K) = 0$ (0,5)

4-2- لكي تكون التذبذبات جيبية يجب أن يكون في المعادلة التفاضلية : $\frac{dq}{dt}(r - K) = 0$

www.tawjihnet.net

https://www.tawjihnet.net التحميل موقع توجيه نت

Académie régionale d'Education et de Formation
Région beni-mellal - khénifra

SESSION DE :

Niveau : Série : Filière :

COMPOSITION DE :

Note définitive sur 20

Nom du correcteur

Signature du correcteur

Appréciations expliquant la note chiffrée

Réservé au Secrétariat

$E = h \times \frac{c}{\lambda}$; $c = \lambda \times \nu$; $\nu = \frac{c}{\lambda}$

$\lambda \times E = h \times c$

$\lambda = \frac{h \times c}{E}$

$\lambda = \frac{6{,}626 \times 10^{-34} \times 3 \times 10^{8}}{17{,}59 \times 1{,}6 \times 10^{-13}}$ 0,75

$\lambda = 7{,}06 \times 10^{-14}\ m$

$a_1 = a_0 e^{-\lambda t_1}$

$\frac{a_1}{a_0} = e^{-\lambda t_1}$

$-\ln\left(\frac{a_1}{a_0}\right) = \lambda t_1$

$\frac{-1}{t_1} \ln\left(\frac{a_1}{a_0}\right) = \lambda$

$\lambda = \frac{-1}{4 \times 365 \times 24 \times 3600} \times \ln\left(\frac{1{,}6}{2}\right)$

$\lambda = 1{,}77 \times 10^{-9}\ m$

$a_2 = a_0 e^{-\lambda t_2}$

$= 2 \times 10^{6} \times e^{-(1{,}77 \times 10^{-9} \times 12{,}4 \times 365 \times 24 \times 3600)}$

$a_2 = 1{,}00 \times 10^{6}\ Bq$

$r_b - K = 0$

$r_b = K$

$r_b = 11\ \Omega$ 0,5

$\begin{cases} 2+3 = A+1 \\ 1+1 = Z+0 \end{cases}$

$\begin{cases} A = 4 \\ Z = 2 \end{cases}$ 0,5

^4_2H

$E_{\ell b} = |\Delta E|$

$= |(m(\text{النوى}) - m(\text{المتفاعلات})) \times c^2|$

$= |(m(^4_2H) + m(^1_0n) - (m(^3_1H) + m(^2_1H))) \times c^2|$

$= |(4{,}00150 + 1{,}00866 - (2{,}01355 + 3{,}01550)) \times c^2|$

$= |-0{,}01889 \times c^2|$

$= 0{,}01889 \times 931{,}5\ MeV\,c^{-2} \times c^2$ 0,75

$E_{\ell b} = 17{,}59\ MeV$

N.B. : Il est interdit aux candidats de signer la présente feuille ou d'y mettre un signe quelconque pouvant indiquer sa provenance.

www.tawjihnet.net

https://www.tawjihnet.net
التحميل من موقع توجيه نت

وزارة التربية الوطنية و التكوين المهني
الأكاديمية الجهوية للتربية و التكوين
لجهة بني ملال - خنيفرة

خاص بكتابة الامتحان

دورة :

المستوى : الشعبة : المسلك :

مادة :

الملاحظات المفسرة للنقطة النهائية

النقطة النهائية على 20

إسم المصحح

توقيع المصحح

- 2 - عند التكافؤ لدينا :

$\frac{C_A V_A}{2} = \frac{C_B V_{BE}}{1}$

$\Rightarrow C_A = \frac{C_B V_{BE}}{V_A}$

$= \frac{5\times10^{-3}\times 6\times10^{-3}}{5\times10^{-3}}$

$= 0.06 \text{ mol/L}$ (0,5)

إذن

$C_A = 6\times10^{-2} \text{ mol/L}$

1 - 2 - الكاشف الملون المناسب لمعايرة التكافؤ هو :

• أزرق البرمول (0,5)

لأن : pH_E ينتمي لمنطقة إنعطافه :

$8 < pH_E = 8,5 < 9,6$

1 - 3 - نعلم أن :

$pH = pK_A + \log\frac{[A^-]}{[AH]}$

$\Rightarrow pH - pK_A = \log\frac{[A^-]}{[AH]}$

$\Rightarrow 10^{pH-pK_A} = \frac{[A^-]}{[AH]}$

عند إضافة $V_B = 7mL$ لدينا ما خلال المنحنى $pH = 11,6$

ولدينا :

$pK_A = -\log K_A$

إذن :

$pK_A = -\log 10^{-4,9}$

$= 4,9$

إذن : (0,5)

$\frac{[A^-]}{[AH]} = 10^{-4,9+11,6}$

$= 5,011\times10^6$

ومنه :

$[A^-] = 5,011\times10^6 [AH]$

إذن النوع المهيمن هو $[A^-]$ أي $[A^-] \gg [AH]$

تمرين الفيزياء :

الجزء الثاني :

1 - 2 - إعتماد F على المنحنى : (0,25)

$\theta_{max} = 0,2 \text{ rad}$

$E_m = E_{cmax} = 40 \text{ mJ}$

3 - 2 - نعلم أن :

$E_{cmax} = \frac{1}{2} J_\Delta \dot{\theta}^2_{max}$

ولدينا :

$V = L\times\dot{\theta}$

إذن :

$V_{max} = L\dot{\theta}_{max}$

إذن :

$\dot{\theta}_{max} = \frac{V_{max}}{L}$

وبالتالي نجد :

$E_{cmax} = \frac{1}{2} \times m \times L^2 \times \left(\frac{V_{max}}{L}\right)^2$

$\Rightarrow \frac{2E_{cmax}}{mL^2} = \frac{V_{max}^2}{L^2}$

$\Rightarrow V_{max}^2 = \frac{2E_{cmax}}{m}$

$\Rightarrow V_{max} = \mp\sqrt{\frac{2E_{cmax}}{m}}$ (0,5)

إذن

$V_{max} = \sqrt{\frac{2E_{cmax}}{m}}$

$= \sqrt{\frac{2\times40\times10^{-3}}{350\times10^{-3}}}$

إذن :

$V_{max} = 0,47 \text{ m/s}$

www.tawjihnet.net

يمنع على المترشح أن يضع من عنده أو يحدث أية علامة تمنح عن طريقها هويته

https://www.tawjihnet.net التحميل : موقع توجيه نت

Ministère de l'Education Nationale
de la Formation Professionnelle
Académie Régionale d'Education
et de Formation
Région beni-mellal - khénifra

SESSION DE :

Niveau : Série : Filière :

COMPOSITION DE :

Note définitive sur 20

Nom du correcteur

Signature du correcteur

Appréciations expliquant la note chiffrée

Réservé au Secrétariat

$CH_3 \rightleftharpoons H_2 + 4H_3O^+ + 4e^-$

$V(H_2) \approx 0,16\,L$

الجزء الثاني :

1 -

1 - 1 - $V_{BE} = 6\,mL$ ، $P_{HE} = 8,6$

2 - 1 - الجدول الوصفي لتفاعل المعايرة :

حالة المجموعة	التقدم	كميات المادة بـ mol			
معادلة التفاعل		$AH + HO^- \rightarrow A^- + H_2O$			
$t=0$	0	C_AV_A	C_BV_{BE}	0	وفير
$t>0$	x	$C_AV_A - x$	$C_BV_{BE} - x$	x	وفير
t_f	x_f	$C_AV_A - x_f$	$C_BV_{BE} - x_f$	x_f	وفير

من الجدول الوصفي لدينا :

$$K = \frac{[A^-]_f}{[AH]_f \times [HO^-]_f} = \frac{x_f(V_A+V_E)}{(C_AV_A - x_f)(C_BV_E - x_f)} \times \frac{(V_E+V_A)}{(V_E+V_A)}$$

$$= \frac{1}{\quad}$$

لدينا :

$$K = \frac{[A^-]_f}{[AH]_f \times [HO^-]_f} = \frac{[A^-]_f \times [H_3O^+]}{[AH]_f \times [HO^-]_f \times [H_3O^+]}$$

لدينا :

$$K_e = [HO^-] \times [H_3O^+]$$

و

$$K_A = \frac{[A^-] \times [H_3O^+]}{[AH]}$$

إذن لدينا :

$$K = \frac{K_A}{K_e} = \frac{10^{-4,9}}{10^{-14}} = 1,25 \times 10^9$$

بما أن : $K = 1,25 \times 10^9 > 10^4$

فإن التفاعل كلي.

3 - عندما تكون طاقة الوضع تساوي الطاقة الحركية فإن :

$$E_m = E_c + E_{pp} \quad (E_c = E_{pp})$$

$$\Rightarrow E_m = 2E_{pp}$$

$$\Rightarrow E_m = 2 \times \frac{1}{2} mgL\theta^2$$

$$\Rightarrow E_m = mgL\theta^2$$

$$\Rightarrow \theta^2 = \frac{E_m}{mgL}$$

$$\Rightarrow \theta = \pm\sqrt{\frac{E_m}{mgL}}$$

$$= \pm\sqrt{\frac{40 \times 10^{-3}}{3,50 \times 10^{-3} \times 9,81 \times 58 \times 10^{-2}}}$$

إذن $\theta = -0,14\,rad$ أو $\theta = 0,14\,rad$

التمرين الأول :

الجزء الأول :

1 - التحليل الكهربائي المدروس هو تحول : قسري.

2 - خلال التحليل الكهربائي المدروس :

- الإلكترود A هو الكاثود وبجواره تحترل أيونات الرصاص Pb^{2+}

N.B. : Il est interdit aux candidats de signer la présente feuille ou d'y mettre un signe quelconque pouvant indiquer sa provenance.

www.tawjihnet.net

https://www.tawjihnet.net
التحميل موقع توجيه نت

وزارة التربية الوطنية و التكوين المهني
الأكاديمية الجهوية للتربية و التكوين
لجهة بني ملال – خنيفرة

دورة : .....

المستوى : ..... الشعبة : ..... المسلك : .....

مادة : .....

الملاحظات المفسرة للنقطة النهائية

خاص بكتابة الامتحان

النقطة النهائية على 20

إسم المصحح

توقيع المصحح

$R_{Li} = \frac{m_{Li} \times V}{e \times B}$ و $R_x = \frac{m_x \times V}{2e \times B}$ نعلم أن :

(لأن $(q(X^{2+}) = 2e$)

إذا :

$$\frac{R_x}{R_{Li}} = \frac{m_x \times V}{2e \times B} \times \frac{e \times B}{m_{Li} \times V}$$

$$\frac{R_x}{R_{Li}} = \frac{m_x}{2m_{Li}}$$

إذا

$$\frac{m_x}{2m_{Li}} = 2$$

$$m_x = 2 \times 2 \times m_{Li}$$

$$= 4 \times 6,015$$

$$= 24,04 u$$

$$\approx 23,948 u$$

0,75

إذا :

$m_x = 23,948 u$

إذا : الدقيقة X^{2+} هي : $^{24}_{12}Mg^{2+}$

التمرين الأول :

1 - 2 - مميزات التفاعل الحاصل :

- تفاعل غير كلي.
- تفاعل بطيء.

0,5

2 - 2 - لدينا معادلة تفاعل البرو بانوئيك مع الإيثانول :

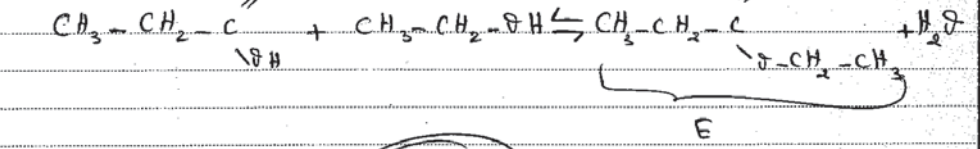

E

0,5

إذا :

- الصيغة نصف المنشورة المركبة E :

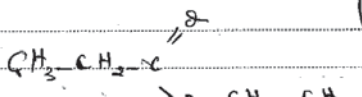

- إسمه : بروبانوات الإيثيل.

3 - 2 - الجدول الوصفي :

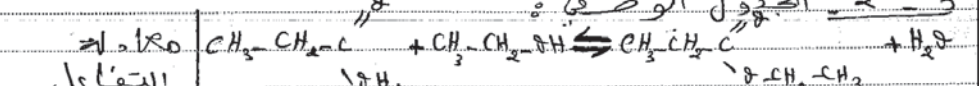

الحالة	التقدم x_p	كميات المادة بـ mol			
$t=0$	0	0,5	0,5	0	0
t	x	$0,5-x$	$0,5-x$	x	x
$t>0$	x_f	$0,5-x_f$	$0,5-x_f$	$n_E=0,33$	x_f

0,5

www.tawjihnet.net
يمنع على المترشح أن يمضي ورقته، أو يجعل أية علامة تبين مصدر الورقة

https://www.tawjihnet.net
التحميل من موقع توجيه نت

أي كل الأعمال.

3- المجموعة المدروسة: {الأيون Li^+}
القوى المطبقة:
قوة لورنتز.

بتطبيق القانون الثاني لنيوتن على الأيون Li^+ نجد:
$\vec{F}_{ar} = m\vec{a}$ في مرجع مرتبط بالمعلم
إذن: $\vec{F} = m_{Li}\vec{a}$
بالإسقاط في أساس فريني نجد:

$$\begin{cases} F_n = m_{Li}a_n \\ F_u = m_{Li}a_u \end{cases}$$

($\vec{F} = \vec{F}_n + \vec{F}_u$ بما أن $F_u = 0$ إذن $F = F_n$)

$$\Leftrightarrow \begin{cases} F = m_{Li}a_n \\ a_u = 0 \end{cases}$$

($a_u = \frac{dV}{dt}$ و $a_n = \frac{V^2}{R_{Li}}$ بما أن)

$$\Leftrightarrow \begin{cases} |q| \times V \times B = m_{Li}\frac{V^2}{R_{Li}} \\ \frac{dV}{dt} = 0 \end{cases}$$

(1)

$$\Leftrightarrow \begin{cases} R_{Li} = \frac{m_{Li}V^2}{|q| \times V \times B} \\ V = cte \end{cases}$$

إذن $R_{Li} = \frac{m_{Li} \times V}{e \times B} = cte$ و $V = cte$ (حركة منتظمة)
(حركة دائرية) $\Leftarrow$

إذن حركة الأيون Li^+ حركة منتظمة مسارها دائري شعاعه R_{Li}

4- باستغلال الشكل (1) لدينا:
$R_x = 3\,(SI)$
$R_{Li} = 1,5\,(SI)$

إذن $\frac{R_x}{R_{Li}} = \frac{3}{1,5} = 2$ (0,25)

ب- نعلم أن: $r = \frac{n_{exp}}{n_{TH}}$

ولدينا: $n_{TH} = x_{max} = n_0 = 0,5\,mol$
(الحجم لتر كيو متري)

ولدينا: $n_{exp} = x_f = n_E = 0,33$ (0,5)

إذن:

$$r = \frac{0,33}{0,5} = 0,66 = 66\%$$

إذن $r = 66\%$

التمرين الرابع:
الجزء الأول:

1- إثبات القوة $\vec{F}$: عمودية على $\vec{V}$ و $\vec{B}$ ($\vec{F} = q\vec{V} \wedge \vec{B}$) (0,25)
منحنى القوة $\vec{F}$ هو منحنى لجداء الدقيقتين المتجاورتين
الشدة F:
لدينا:

$$F = |q| \times V \times B$$
$$= e \times V \times B$$
$$= 1,6 \times 10^{-19} \times 10^5 \times 0,5 = 8 \times 10^{-15}\,N$$

إذن $F = 8 \times 10^{-15}\,N$ (0,25)

N.B. : Il est interdit aux candidats de signer la présente feuille ou d'y mettre un signe quelconque pouvant indiquer sa provenance.

www.tawjihnet.net